Рабочий лист

Ученик: _____

Реши примеры столбиком.

	6	8			8	4			6	5				6			1	6				2
+	2	9		+		9		+	1	3		+	3	4		+	4	1		+	8	2
	8	4			5	7				6			4	5			5	2			8	6
+	1	4		+	2	7		+	8	8		+	1	0		+	3	4		+		4

Сумма чисел каждого сектора должна быть равна числу в центре круга. Заполни пропуски!

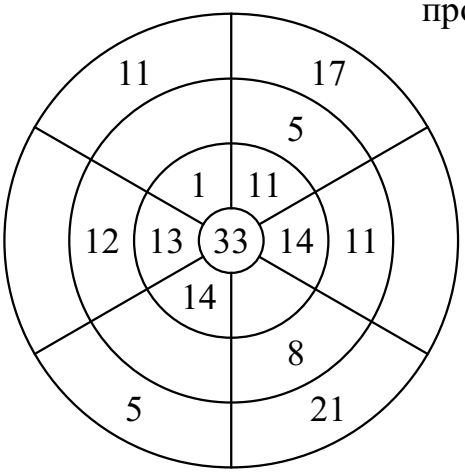

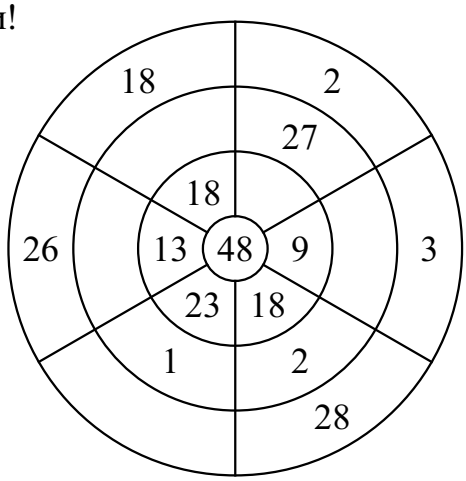

Рисование по точкам. Дорисуй так, как показано на верхней части рисунка.

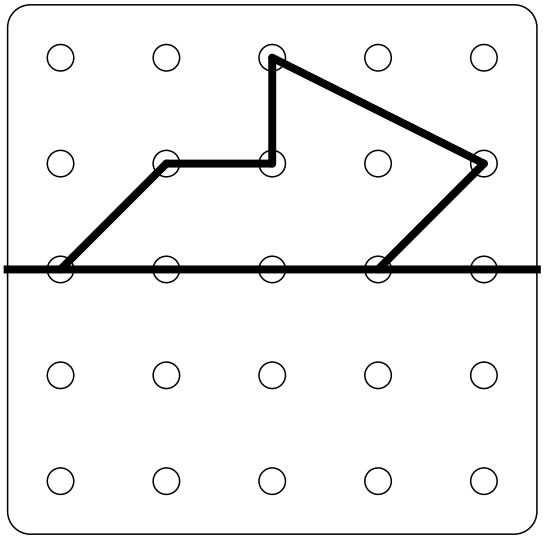

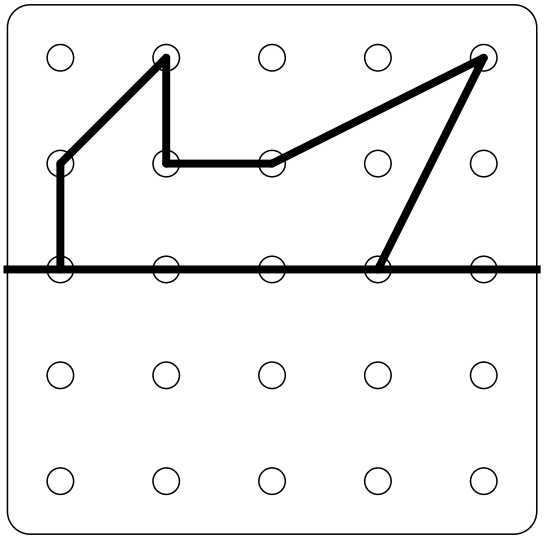

Рабочий лист

Ученик: _____

Реши примеры столбиком.

		6	8				8	4				6	5					6				1	6					2	
	+	2	9			+		9			+	1	3			+	3	4			+	4	1			+	8	2	
		1					1										1												
		9	7				9	3				7	8				4	0				5	7				8	4	
		8	4				5	7					6				4	5				5	2				8	6	
	+	1	4			+	2	7			+	8	8			+	1	0			+	3	4			+		4	
							1					1															1		
		9	8				8	4				9	4				5	5				8	6				9	0	

Сумма чисел каждого сектора должна быть равна числу в центре круга. Заполни пропуски!

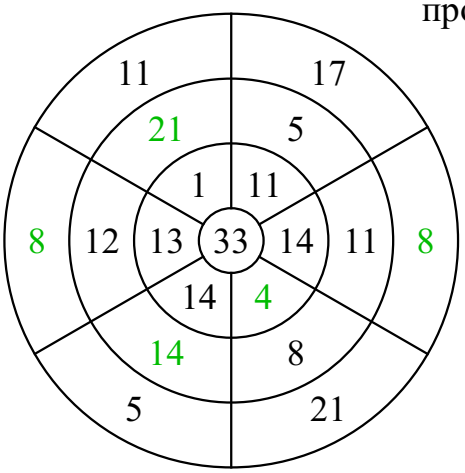

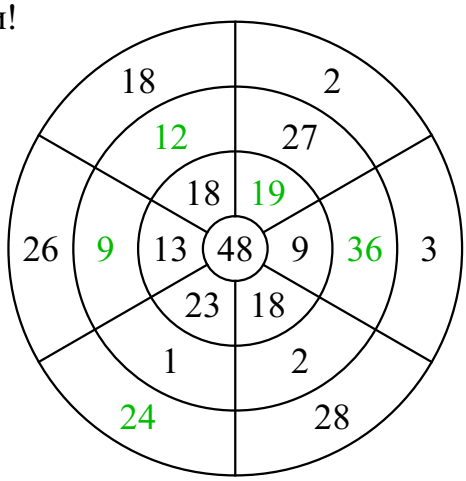
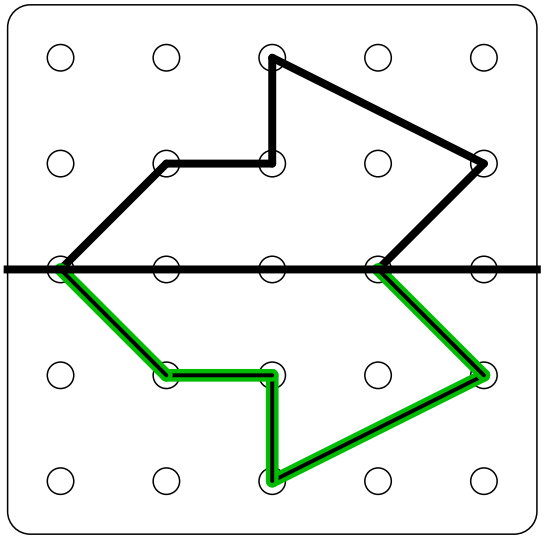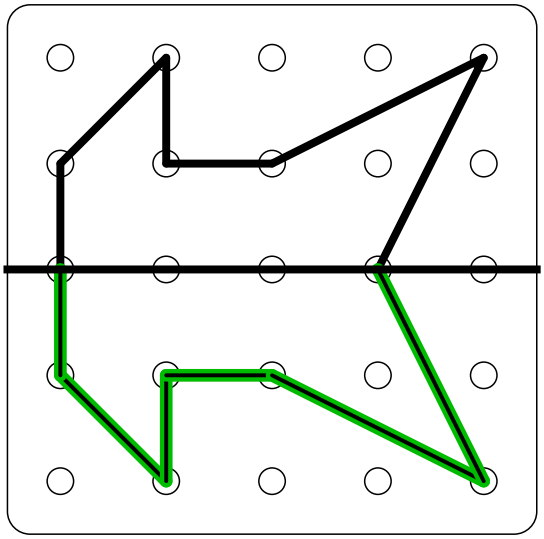
Рисование по точкам. Дорисуй так, как показано на верхней части рисунка.